CONSÓRCIO INTERMUNICIPAL MULTISSETORIAL DO MÉDIO RIO PIRACICABA – CONSMEPI

PROCESSO SELETIVO 02/2026

CADERNO DE QUESTÕES

CARGO: ENGENHEIRO AGRIMENSOR

INSTRUÇÕES AO CANDIDATO

1. A duração total da prova é de 3 (três) horas, já incluído o tempo destinado ao preenchimento da Folha de Respostas.
2. O candidato somente poderá iniciar a prova ou folhear o caderno de questões após autorização do fiscal de sala.
3. Antes de iniciar, verifique se o seu caderno contém 30 (trinta) questões objetivas, numeradas corretamente, e se todas as páginas estão completas e legíveis.
4. Cada questão apresenta quatro alternativas (A), (B), (C) e (D). Marque somente uma alternativa na Folha de Respostas.
5. Utilize caneta esferográfica de tinta azul ou preta. Rasuras, marcações múltiplas ou o uso de lápis implicam anulação da questão.
6. A Folha de Respostas é de inteira responsabilidade do candidato, não sendo fornecida substituição em caso de erro, rasura ou marcação indevida.
7. Confira seus dados pessoais na Folha de Respostas antes de iniciar a prova.
8. É proibido consultar qualquer material, comunicar-se com outros candidatos ou utilizar equipamentos eletrônicos, tais como celulares, fones de ouvido, relógios digitais, calculadoras, entre outros.
9. O candidato somente poderá retirar-se do local de aplicação da prova depois de transcorrido o tempo de 60 minutos da duração da prova, levando consigo o caderno de provas.
10. Mantenha silêncio e obedeça às orientações do fiscal de sala. O descumprimento destas normas poderá acarretar eliminação do certame.

BOA PROVA!

LÍNGUA PORTUGUESA

TEXTO I

"Ao verme que primeiro roeu as frias carnes do meu cadáver dedico como saudosa lembrança estas memórias póstumas. Algum tempo hesitei se devia abrir estas memórias pelo princípio ou pelo fim, isto é, se poria em primeiro lugar o meu nascimento ou a minha morte. Suposto o uso vulgar seja começar pelo nascimento, duas considerações me levaram a adotar diferente método: a primeira é que eu não sou propriamente um autor defunto, mas um defunto autor, para quem a campa foi outro berço; a segunda é que o escrito ficaria assim mais galante e mais novo."

(ASSIS, Machado de. Memórias Póstumas de Brás Cubas. Rio de Janeiro, 1881. Domínio público.)

QUESTÃO 1

Nos trechos do texto I, a ideia central é que:

A) a obra se apresenta como memórias de um defunto, que inverte a ordem convencional da narrativa ao começar pelo fim.

B) o narrador hesita porque teme revelar segredos de família.

C) a obra registra com fidelidade documental a história do Brasil do século XIX.

D) o narrador se arrepende amargamente de ter escrito o livro.

QUESTÃO 2

Com base no texto I, é correto inferir que:

A) o narrador já está morto no momento em que escreve as memórias.

B) o narrador escreveu a obra no leito de morte, ainda em vida.

C) a obra foi organizada e publicada por terceiros, após a morte do autor.

D) o narrador dedicou a obra a um amigo de infância.

QUESTÃO 3

No texto I, o emprego de palavras e expressões ultrapassa, em vários momentos, o sentido literal. Assinale a alternativa cuja explicação de sentido não está correta.

A) "as frias carnes do meu cadáver" refere-se ao próprio corpo morto do narrador.

B) "um defunto autor" inverte a ordem das palavras para ironizar a condição do narrador: um morto que escreve.

C) "saudosa lembrança" mantém o sentido denotativo de saudade, pois o narrador recorda com nostalgia a convivência que teve com o verme em vida.

D) "a campa foi outro berço" emprega "berço" em sentido figurado, como ponto de partida de uma nova existência.

QUESTÃO 4

A respeito dos recursos linguísticos dos textos I e II, analise as assertivas a seguir.

I. Em "estas memórias póstumas", o pronome demonstrativo "estas" indica proximidade, situando o livro no momento da enunciação.

II. Em "isto é, se poria em primeiro lugar o meu nascimento ou a minha morte", a locução "isto é" introduz explicação que retoma e esclarece o que foi dito antes.

III. Em "Não tive filhos, não transmiti a nenhuma criatura o legado da nossa miséria", a repetição do advérbio "não" no início das duas orações cria efeito de reforço da negação.

IV. Em "abrir estas memórias pelo princípio ou pelo fim", a conjunção "ou" introduz oração coordenada sindética adversativa.

Está correta a informação contida em:

A) I e II, apenas.

B) I, II e III, apenas.

C) II e IV, apenas.

D) III e IV, apenas.

QUESTÃO 5

Considerando os trechos do Texto I, assinale a alternativa que descreve corretamente características da narrativa apresentada.

A) a exposição de dados estatísticos para comprovar hipóteses científicas.

B) a narração ficcional em primeira pessoa, com digressões e ironia.

C) o relato jornalístico imparcial de fatos recentes do cotidiano urbano.

D) a instrução sequencial de etapas para a execução de uma tarefa prática.

TEXTO II

"Não tive filhos, não transmiti a nenhuma criatura o legado da nossa miséria."

(ASSIS, Machado de. Memórias Póstumas de Brás Cubas. Rio de Janeiro, 1881. Domínio público. Trecho final da obra.)

QUESTÃO 6

No texto II, a frase que encerra a obra expressa:

A) um encerramento irônico, em que o narrador apresenta a ausência de filhos como uma forma de não ter transmitido a outros o "legado da nossa miséria".

B) o lamento sincero e melancólico do narrador pela ausência de descendência.

C) a referência à pobreza financeira do narrador, que nada pôde deixar em herança.

D) a celebração, pelo narrador, da alegria de ter deixado herdeiros.

QUESTÃO 7

Analise as assertivas a seguir, referentes à análise linguística dos textos I e II.

I. Em "dedico como saudosa lembrança estas memórias póstumas", o verbo "dedicar" é transitivo direto e indireto, e "estas memórias póstumas" exerce a função de objeto direto.

II. Em "Suposto o uso vulgar seja começar pelo nascimento", o verbo "seja" está no presente do subjuntivo.

III. Em "Não tive filhos, não transmiti a nenhuma criatura o legado da nossa miséria", as orações estão coordenadas assindeticamente.

IV. Em "se poria em primeiro lugar o meu nascimento ou a minha morte", o verbo "poria" está no futuro do presente do indicativo.

V. Em "hesitei se devia abrir estas memórias", o verbo "devia" está no pretérito imperfeito do indicativo, em correlação com o pretérito perfeito "hesitei".

Estão corretas apenas as assertivas:

A) I e II.
B) I, II e III.
C) I, III e V.
D) I, II, III e V.

QUESTÃO 8

Nos textos I e II, os recursos expressivos contribuem para a construção dos sentidos.

Assinale a alternativa cuja identificação da figura de linguagem está incorreta:

A) Em "eu não sou propriamente um autor defunto, mas um defunto autor", ocorre um quiasmo, caracterizado pela disposição invertida das palavras "autor" e "defunto".

B) Em "o meu nascimento ou a minha morte", ocorre uma antítese, pela aproximação de palavras que expressam ideias opostas.

C) Em "Não tive filhos, não transmiti a nenhuma criatura o legado da nossa miséria", ocorre um eufemismo, pois a declaração suaviza a referência à morte do narrador.

D) Em "a campa foi outro berço", ocorre uma metáfora, pois a sepultura é apresentada como um berço, associado ao início da existência do narrador como escritor depois de morto.

QUESTÃO 9

Analise as assertivas a seguir, referentes à reescrita e à pontuação de trechos dos textos I e II.

I. A reescrita de "Não tive filhos, não transmiti a nenhuma criatura o legado da nossa miséria" como "Não tive filhos e não transmiti a nenhuma criatura o legado da nossa miséria" mantém as duas negações expressas no original.

II. Em "Algum tempo hesitei se devia abrir estas memórias pelo princípio ou pelo fim, isto é, se poria em primeiro lugar o meu nascimento ou a minha morte", as vírgulas que delimitam "isto é" assinalam o emprego de uma expressão explicativa.

III. A substituição de "adotar" por "abandonar", em "duas considerações me levaram a adotar diferente método", preserva o sentido original do trecho.

IV. A reescrita da dedicatória como "Dedico estas memórias póstumas, como saudosa lembrança, ao verme que primeiro roeu as frias carnes do meu cadáver" preserva o destinatário da dedicatória e mantém a correção gramatical.

Estão corretas apenas as assertivas:

A) I e II.
B) I e III.
C) II, III e IV.
D) I, II e IV.

QUESTÃO 10

No que se refere à redação oficial e à comunicação administrativa, assinale a alternativa correta.

A) A formalidade exige o emprego de vocabulário rebuscado e de construções sintáticas complexas, ainda que dificultem a compreensão da mensagem.

B) A concisão autoriza a exclusão de informações necessárias à compreensão do assunto, desde que resulte em um documento mais curto.

C) A impessoalidade exige que todos os verbos sejam empregados na terceira pessoa, sendo incompatível com formas como "informo" e "solicitamos".

D) A impessoalidade exige que a comunicação trate do assunto em caráter institucional, sem impressões pessoais do redator, e não impede o emprego da primeira pessoa gramatical.

MATEMÁTICA E RACIOCÍNIO LÓGICO

QUESTÃO 11

Um reservatório tem a forma de um prisma reto, com base retangular e profundidade interna de 0,60 m. Sua base é delimitada por uma faixa de largura uniforme x, situada inteiramente dentro de um retângulo externo cujos lados estão na razão 4 : 3 e cuja diagonal mede 25 m. A figura mostra a vista superior. O reservatório, inicialmente vazio, é preenchido até sua capacidade total, em 150 minutos, por três bombas idênticas. Cada bomba tem vazão nominal de 250 L/min e opera, durante todo o enchimento, com vazão efetiva igual a 80% da nominal. Não há perdas de água.

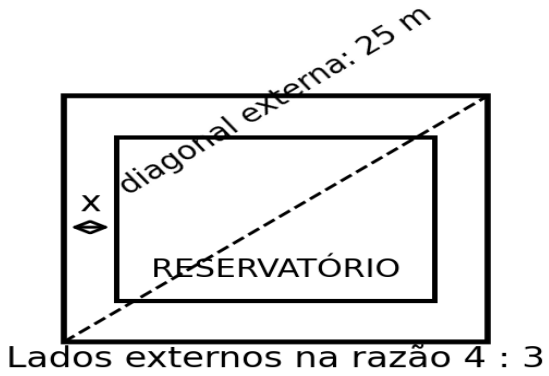

Assinale a alternativa correta para a largura x da faixa:

A) 1,25 m.
B) 5,00 m.
C) 2,50 m.
D) 7,50 m.

QUESTÃO 12

Um capital C foi aplicado à taxa de 10% ao mês, em regime de juros compostos. Ao final do segundo mês, imediatamente após o crédito dos juros desse mês, foram retirados R$ 2.100,00. O saldo restante continuou aplicado à mesma taxa, sem outras movimentações. Ao final do terceiro mês, após o crédito dos juros, o saldo era de R$ 11.000,00. A linha do tempo representa essas operações.

Julgue as assertivas como verdadeiras (V) ou falsas (F).

I. O capital inicial era de R$ 10.000,00.

II. A soma dos juros creditados nos três meses foi de R$ 3.100,00.

III. Os juros creditados no terceiro mês foram de R$ 1.210,00.

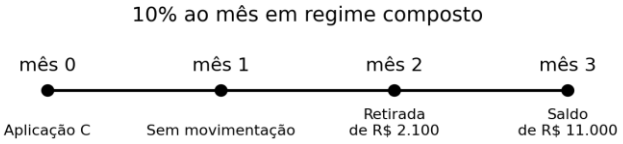

Assinale a alternativa correta quanto à sequência I, II e III:

A) V - V - F.
B) V - F - F.
C) F - V - F.
D) V - V - V.

QUESTÃO 13

Um grupo de 60 servidores foi classificado segundo a participação em duas capacitações, A e B. Os números da figura indicam as quantidades de servidores em cada região: apenas A, ambas, apenas B e nenhuma. Escolhem-se dois servidores distintos, ao acaso, de modo que todos os pares não ordenados tenham a mesma probabilidade de seleção. Considere o evento em que os dois escolhidos participaram, cada um, de pelo menos uma das capacitações e, considerando a dupla em conjunto, há pelo menos um participante de A e pelo menos um participante de B. Um mesmo servidor pode satisfazer as duas últimas exigências se tiver participado de ambas as capacitações.

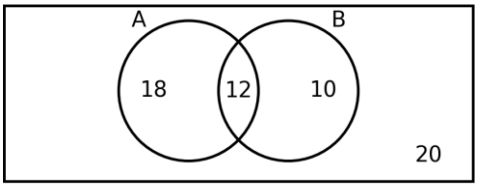

Assinale a alternativa correta para a probabilidade desse evento:

A) 26/59.
B) 97/295.
C) 47/295.
D) 29/118.

QUESTÃO 14

O gráfico representa uma função quadrática f, definida para todo x real, e informa exatamente os pontos (0, 0), (2, 12), (6, 12) e (8, 0).

Analise as assertivas:

I. O valor máximo de f é 16.

II. O conjunto dos números reais x para os quais $f(x) \geq 12$ é o intervalo fechado [2, 6].

III. Existem exatamente três números inteiros x para os quais $f(x) > 15$.

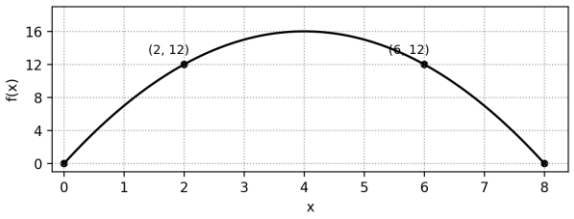

Assinale a alternativa correta:

A) Apenas I é verdadeira.

B) Apenas II e III são verdadeiras.

C) I, II e III são verdadeiras.

D) Apenas I e II são verdadeiras.

QUESTÃO 15

Cinco equipes, A, B, C, D e E, serão atendidas uma única vez, em cinco posições consecutivas. Uma ordem é admissível se, e somente se, atende simultaneamente a todas as regras abaixo.

• A é atendida antes de C.

• B é atendida imediatamente depois de D.

• E não ocupa a primeira nem a última posição.

• Exatamente uma das duas proposições seguintes é verdadeira: "C é atendida antes de D"; "E é atendida antes de C".

A figura representa as cinco posições disponíveis.

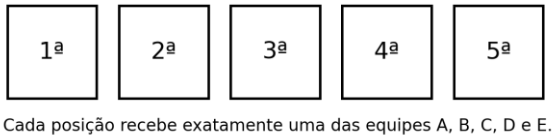

Cada posição recebe exatamente uma das equipes A, B, C, D e E.

Assinale a alternativa correta para o número de ordens admissíveis:

A) 4.

B) 6.

C) 8.

D) 5.

INFORMÁTICA

QUESTÃO 16

Um funcionário utiliza um computador com Windows 11 para elaborar documentos. Durante o trabalho, conecta um teclado novo e instala um programa de edição de textos.

Considerando os conceitos básicos de informática, assinale a alternativa correta:

A) O teclado é hardware, enquanto o editor de textos e o Windows 11 são softwares.

B) O teclado e o Windows 11 são hardwares, enquanto o editor de textos é software.

C) O teclado é software, pois envia informações ao computador, enquanto o Windows 11 é hardware.

D) O editor de textos é hardware quando instalado no computador e software quando utilizado pela internet.

QUESTÃO 17

Um servidor precisa transferir um arquivo da pasta Pendentes para a pasta Concluídos, ambas armazenadas no disco local do computador. Ele deseja que, ao final, o arquivo esteja apenas na pasta de destino.

Considerando o Explorador de Arquivos do Windows 10 e do Windows 11, assinale a alternativa correta:

A) Selecionar o arquivo, executar Copiar e, na pasta Concluídos, executar Colar**.**

B) Selecionar o arquivo, executar Renomear e substituir seu nome por Concluídos.

C) Selecionar o arquivo, executar Recortar e, na pasta Concluídos, executar Colar**.**

D) Selecionar o arquivo, executar Criar atalho e colocar o atalho na pasta Concluídos.

QUESTÃO 18

Uma equipe utiliza o Microsoft Office para elaborar relatórios, controlar despesas e apresentar resultados em reuniões.

Analise as assertivas:

I. No Word, é possível inserir uma tabela em um documento para organizar informações em linhas e colunas.

II. No Excel, a fórmula = SOMA (B2:B4) soma os valores numéricos das células B2, B3 e B4.

III. No PowerPoint, a aplicação de uma transição a um slide substitui a necessidade de salvar o arquivo da apresentação.

Assinale a alternativa correta:

A) Apenas I está correta.

B) Apenas II e III estão corretas.

C) I, II e III estão corretas.

D) Apenas I e II estão corretas.

QUESTÃO 19

Uma funcionária recebeu um arquivo por correio eletrônico e pretende disponibilizá-lo em uma pasta compartilhada na rede local do setor.

Julgue as afirmações como verdadeiras (V) ou falsas (F).

( ) Salvar o anexo recebido permite armazenar uma cópia do arquivo em uma pasta escolhida pela funcionária.

( ) Colocar o arquivo em uma pasta compartilhada concede automaticamente permissão de edição a todos os usuários da rede, independentemente das configurações de acesso.

( ) Computadores conectados a uma rede local podem compartilhar arquivos entre si mesmo sem acesso à internet, desde que a rede e as permissões estejam configuradas para isso.

Assinale a alternativa correta, que apresenta a sequência de cima para baixo.

A) V – V – F.
B) V – F – V.
C) F – V – V.
D) V – F – F.

QUESTÃO 20

Um funcionário recebeu um e-mail que solicita sua senha e ameaça bloquear sua conta caso ele não acesse imediatamente um link. O computador utilizado possui antivírus atualizado.

Considerando essa situação e as boas práticas de segurança da informação, assinale a alternativa incorreta:

A) O antivírus atualizado torna seguro informar a senha na página indicada, pois impede que terceiros utilizem as credenciais fornecidas.
B) A urgência da mensagem e a solicitação de senha por um link são sinais que justificam suspeitar de uma tentativa de phishing.
C) A solicitação deve ser verificada por um canal institucional conhecido, sem depender do link apresentado na mensagem.
D) Manter cópias de segurança dos arquivos importantes contribui para sua recuperação em caso de perda, mas não torna seguro fornecer a senha no link recebido.

CONHECIMENTOS ESPECÍFICOS

QUESTÃO 21

Em um levantamento planimétrico, o ponto A possui coordenadas EA = 1.000,000 m e NA = 2.000,000 m. A distância horizontal de A até B é de 120,000 m, e o azimute de quadrícula AB é de 135°00′00″, contado a partir do norte da quadrícula, no sentido horário.

Adote:

$\Delta E = D \times \text{sen}(Az)$

$\Delta N = D \times \cos(Az)$

Nas fórmulas, ΔE e ΔN são as variações das coordenadas leste e norte, D é a distância horizontal e Az é o azimute. Desconsidere quaisquer reduções adicionais e arredonde as coordenadas ao milímetro.

Assinale a alternativa correta:

A) EB = 1.084,853 m e NB = 2.084,853 m.
B) EB = 915,147 m e NB = 2.084,853 m.
C) EB = 1.084,853 m e NB = 1.915,147 m.
D) EB = 915,147 m e NB = 1.915,147 m.

QUESTÃO 22

Um nivelamento geométrico partiu de uma referência de nível com altitude de 100,000 m e terminou em outra cuja altitude conhecida é 100,800 m. A soma dos desníveis observados foi de +0,824 m. O percurso possui três trechos, com comprimentos de 1 km, 2 km e 3 km, nessa ordem. O erro foi considerado admissível. Para este problema, distribua a correção do erro de fechamento proporcionalmente ao comprimento de cada trecho.

Analise as assertivas:

I. O erro de fechamento, definido como desnível observado menos desnível conhecido, é de +0,024 m.

II. A correção total a aplicar aos desníveis é de +0,024 m.

III. A correção do segundo trecho é de −0,008 m.

IV. A correção acumulada até o término do segundo trecho é de −0,012 m.

Assinale a alternativa correta:

A) Apenas as assertivas I, III e IV estão corretas.
B) Apenas as assertivas I e II estão corretas.
C) Apenas as assertivas II e III estão corretas.
D) Apenas as assertivas I, II e IV estão corretas.

QUESTÃO 23

Uma equipe integra, em um SIG, um levantamento GNSS referenciado ao SIRGAS2000 e uma base cartográfica antiga referenciada ao SAD69. Os arquivos utilizam coordenadas projetadas, mas apresentam deslocamento sistemático entre feições correspondentes.

Assinale a alternativa incorreta:

A) A identificação do sistema de referência deve considerar o referencial geodésico, a projeção, o fuso, o hemisfério e as unidades utilizadas.
B) A alteração do identificador do sistema de referência do arquivo SAD69 para SIRGAS2000, sem transformar as coordenadas, não constitui transformação geodésica.
C) A integração deve empregar uma transformação apropriada entre referenciais, seguida da avaliação da compatibilidade posicional dos dados.
D) A atribuição do mesmo sistema de referência aos dois arquivos elimina o deslocamento sistemático, pois a coincidência dos identificadores garante a coincidência das posições.

QUESTÃO 24

Em um levantamento batimétrico, um ecobatímetro registrou um tempo de percurso de ida e volta do pulso acústico de 0,016 s. Considere velocidade uniforme do som na água de 1.500 m/s. No instante da medição, o transdutor estava 0,70 m abaixo da superfície da água, a superfície da água estava 1,20 m acima do nível de redução e não havia outras correções a aplicar.

A profundidade abaixo do transdutor é calculada por:

$d = (v \times t) \div 2$

Em que d é a profundidade abaixo do transdutor, v é a velocidade do som e t é o tempo de ida e volta do pulso.

Assinale a alternativa correta quanto à profundidade do fundo abaixo do nível de redução:

A) 12,50 m.
B) 11,50 m.
C) 13,90 m.
D) 10,10 m.

QUESTÃO 25

Uma poligonal fechada apresentou erro de fechamento linear em leste de +0,060 m e em norte de −0,080 m. O perímetro medido foi de 500,000 m.

Adote o método de Bowditch, distribuindo as correções das componentes proporcionalmente aos comprimentos dos lados. Um dos lados possui comprimento de 100,000 m.

Analise as assertivas:

I. O erro de fechamento linear resultante é de 0,100 m.

II. A precisão relativa, expressa como 1 : (P ÷ f), é de 1 : 5.000, sendo P o perímetro e f o erro de fechamento linear resultante.

III. As correções a aplicar ao lado de 100,000 m são −0,012 m em leste e +0,016 m em norte.

IV. O ajustamento pelo método indicado demonstra que as observações estão livres de erros grosseiros.

Assinale a alternativa correta:

A) Apenas as assertivas I e IV estão corretas.
B) Apenas as assertivas II, III e IV estão corretas.
C) Apenas as assertivas I, II e IV estão corretas.
D) Apenas as assertivas I, II e III estão corretas.

QUESTÃO 26

Uma equipe precisa representar, em duas cartas temáticas, a taxa de ocupação dos lotes por setor, expressa em porcentagem, e o número total de edificações por setor, com valores não negativos.

Julgue as afirmações como verdadeiras (V) ou falsas (F).

( ) Para representar a ordenação das taxas, uma sequência de cores com luminosidade progressiva pode ser mais adequada do que cores de luminosidade semelhante sem ordem perceptível.

( ) Em círculos proporcionais aos totais, a área de cada círculo deve ser proporcional ao valor representado; consequentemente, seu raio varia com a raiz quadrada desse valor.

( ) Uma representação coroplética dos totais absolutos elimina a influência das diferenças de tamanho dos setores sobre a interpretação do fenômeno.

( ) A articulação das folhas e a consistência das feições nas bordas devem ser verificadas quando o produto cartográfico é dividido em cartas adjacentes.

Assinale a alternativa que apresenta a sequência correta de V e F, considerando as afirmações na ordem apresentada.

A) V – V – F – V.
B) V – F – V – V.
C) F – V – F – V.
D) V – V – V – F.

QUESTÃO 27

Um levantamento GNSS forneceu altitude elipsoidal h = 742,380 m. Para o mesmo ponto, o modelo de conversão adotado forneceu o fator η = −5,620 m.

Neste problema, a altitude normal compatível com o datum vertical considerado é obtida por:

$HN = h - \eta$

Em que HN representa a altitude normal, h representa a altitude elipsoidal e η representa o fator de conversão.

O termo de referência exige altitude normal, e não altitude elipsoidal.

Assinale a alternativa correta:

A) A altitude normal é 736,760 m, obtida pela soma algébrica de h e η.

B) A altitude normal é 742,380 m, pois a vinculação horizontal ao SIRGAS2000 dispensa conversão vertical.

C) A altitude normal é 748,000 m; a entrega de h como se fosse HN introduziria uma diferença de −5,620 m em relação ao valor convertido.

D) A altitude normal é 748,000 m; portanto, o fator de conversão pode ser aplicado sem verificar o datum vertical para o qual foi produzido.

QUESTÃO 28

Um ortomosaico produzido por levantamento aéreo possui distância de amostragem no terreno — GSD — de 5 cm. Durante a fiscalização, a contratada sustentou que esse valor, por si só, demonstrava atendimento à exigência contratual de acurácia planimétrica de 10 cm. Foram disponibilizados apenas os resíduos dos pontos utilizados no ajustamento.

Assinale a alternativa incorreta:

A) O GSD caracteriza a dimensão da amostragem da imagem no terreno e não equivale, isoladamente, à acurácia posicional do produto.

B) Resíduos pequenos nos pontos empregados no ajustamento garantem a mesma acurácia em toda a área, tornando desnecessária a avaliação por pontos de verificação independentes.

C) A avaliação da acurácia deve considerar a qualidade das coordenadas de referência dos pontos de verificação, sua distribuição espacial e a medida de qualidade estabelecida contratualmente.

D) A qualidade posicional do produto depende também de fatores como geometria de aquisição, controle de campo, modelagem do terreno e processamento.

QUESTÃO 29

Uma planta, impressa sem deformações na escala 1:2.000, apresenta um segmento de 8,00 cm correspondente a uma distância de quadrícula.

Para converter essa distância em distância horizontal no terreno, adote exclusivamente o fator combinado de redução F = 0,9998, definido, neste problema, pela relação:

Dq = F × Dt

Em que:

Dq = distância de quadrícula;

Dt = distância horizontal no terreno;

F = fator combinado de redução da distância horizontal no terreno à distância de quadrícula.

Desconsidere outras correções e arredonde o resultado ao centímetro.

Assinale a alternativa correta:

A) A distância de quadrícula é 160,00 m e a distância horizontal no terreno é 159,97 m.

B) A distância de quadrícula é 160,00 m e a distância horizontal no terreno é 160,03 m.

C) A distância de quadrícula é 160,00 m e a distância horizontal no terreno é 160,06 m.

D) A distância de quadrícula é 160,00 m e a distância horizontal no terreno é 159,94 m.

QUESTÃO 30

Na contratação de serviços de agrimensura e cartografia sob a Lei nº 14.133/2021, pretende-se produzir uma base geoespacial para apoiar projetos de infraestrutura. A Administração precisa definir critérios verificáveis de entrega e recebimento.

Analise as assertivas:

I. O termo de referência deve explicitar os produtos, os sistemas de referência, as medidas de qualidade exigidas e os procedimentos de verificação e aceitação.

II. A exigência de um modelo específico de equipamento, sem justificativa técnica, substitui a necessidade de estabelecer critérios de qualidade dos produtos.

III. A fiscalização deve registrar as ocorrências da execução e encaminhar aos superiores as situações que ultrapassem sua competência.

IV. O recebimento pode exigir arquivos e documentação que permitam verificar a rastreabilidade dos resultados, conforme as obrigações contratuais.

Assinale a alternativa correta:

A) Apenas as assertivas I e II estão corretas.

B) Apenas as assertivas II, III e IV estão corretas.

C) Apenas as assertivas I e IV estão corretas.

D) Apenas as assertivas I, III e IV estão corretas.